FEUILLE DE TRAVAIL SUR LE PROBLÈME DE DÉCLINAISON

1. Quelle est la déclinaison pour la carte suivante où :

   - l'année courante est 2010,
   - la déclinaison moyenne approximative est pour 1998,
   - la variation annuelle est croissante de 10.0'?

   12°22'

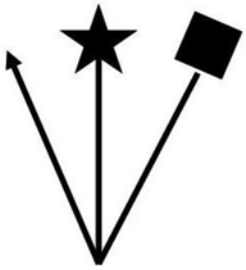

Réponse : _____ est/ouest (encercler une seule direction).

2. Quelle est la déclinaison pour la carte suivante où :

   - l'année courante est 2011,
   - la déclinaison moyenne approximative est pour 2001,
   - la variation annuelle est décroissante de 7.0'?

   7°17'



Réponse : _____ est/ouest (encercler une seule direction).

3. Quelle est la déclinaison pour la carte suivante où :

   - l'année courante est 2015,
   - la déclinaison moyenne approximative est pour 2004,
   - la variation annuelle est croissante de 8.32'?

   5°53'

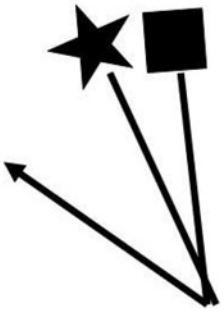

Réponse : _____ est/ouest (encercler une seule direction).

4. Quelle est la déclinaison pour la carte suivante où :

   - l'année courante est 2012,
   - la déclinaison moyenne approximative est pour 1998,
   - la variation annuelle est croissante de 9.57'?

   10°24'



Réponse : _____ est/ouest (encercler une seule direction).

Unofficial convenience copy of A-CR-CCP-703/PF-002, cached 2026-11-08 from https://app.cadets.gc.ca/cadet-publications/A-CR-CCP-703-PF-002/A-CR-CCP-703-PF-002.pdf.
Verify against the official publication.

5. Quelle est la déclinaison pour la carte suivante où :

   - l'année courante est 2014,
   - la déclinaison moyenne approximative est pour 2001,
   - la variation annuelle est décroissante de 18.0'?

Réponse : 9°30' _____ est/ouest (encercler une seule direction).

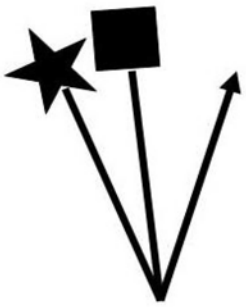

6. Quelle est la déclinaison pour la carte suivante où :

   - l'année courante est 2015,
   - la déclinaison moyenne approximative est pour 2003,
   - la variation annuelle est croissante de 2.0'?

Réponse : 17°45' _____ est/ouest (encercler une seule direction).



7. Quelle est la déclinaison pour la carte suivante où :

   - l'année courante est 2015,
   - la déclinaison moyenne approximative est pour 2003,
   - la variation annuelle est décroissante de 11.0'?

Réponse : 14°12' _____ est/ouest (encercler une seule direction).



8. Quelle est la déclinaison pour la carte suivante où :

   - l'année courante est 2016,
   - la déclinaison moyenne approximative est pour 2009,
   - la variation annuelle est décroissante de 2.7'?

Réponse : 7°39' _____ est/ouest (encercler une seule direction).



Unofficial convenience copy of A-CR-CCP-703/PF-002, cached 2026-11-08 from https://app.cadets.gc.ca/cadet-publications/A-CR-CCP-703-PF-002/A-CR-CCP-703-PF-002.pdf.
Verify against the official publication.